ثانوية سيدي معافة الإعدادية	**فرض محروس رقم ❶ الأسدس الثاني**	المادة : الرياضيات ⏲ 50 دقيقة
وجدة	**الأستاذ**: توفيق بوكرارة	المستوى: الأولى ثانوي إعدادي

الإسم: ..... **القسم:** ..... **الرقم:** .....

❀ التمرين الأول (10 نقط) :

1) أتمم ما يلي حيث k و a و b و c و d أعداد عشرية نسبية : (1 ن) (1 ن) (1 ن)

$k \times (a-b)$ $=$.....	$(a-b)^2$=.....	$(a+b)(c+d)$ =..... .....

2) أنشر وبسط ما يلي : (1,5 ن) (1,5 ن) (1,5 ن)

$A = 5x \times (7+9x)$ $A =$..... $A =$.....	$B = 7x \times (-6-3x)$ $B =$..... $B =$.....	$C = (11x+5)(8+3x)$ $C =$..... $C =$.....

3) عمل ما يلي : (1 ن) (1,5 ن)

$D = 7xyt + 5xy$ $D =$.....	$E = (4x+5)(3x+1) + (3x+1)(x+3) =$..... $E =$.....

❀ التمرين الثاني (7 نقط) :

MNP مثلث متساوي الساقين في M و O نقطة خارجه بحيث: $\widehat{MNP} = 50°$ و $NM = 3cm$ (1,5 ن)

1) أنشئ M' و N' و P' مماثلات M و N و P على التوالي بالنسبة للنقطة O .

(1,5 ن)

2) أحسب معللا جوابك $\widehat{M'N'P'}$.

(2 ن)

.....
.....
.....
.....
.....
.....
.....

3) أنشئ H مركز تعامد المثلث MNP .

(2 ن)

الشكل

❀ التمرين الثالث (3 نقط) :

في أي حالة يكون المثلث PRS قائم الزاوية (معللا جوابك) :

الحالة 1 : $\hat{S} = 70°$ و $\hat{P} = 20°$ (1,5 ن)	**الحالة 2 :** $\hat{R} = 55°$ و $\hat{S} = 95°$ (1,5 ن) ....

بالتوفيـــق

ثانوية سيدي معافة الإعدادية	**تصحيح الفرض المحروس رقم ❶ الأسدس الثاني**	المادة : الرياضيات 50 دقيقة
وحدة	**الأستاذ: توفيق بوكرارة**	المستوى: الأولى ثانوي إعدادي

التمرين الأول (10 نقط) :

1) أتمم ما يلي حيث k و a و b و c و d أعداد عشرية نسبية : (1 ن) (1 ن) (1 ن)

$k \times (a-b)$

$= \boldsymbol{k \times a - k \times b}$

$(a-b)^2 = \boldsymbol{a^2 - 2ab + b^2}$

$(a+b)(c+d) = a(c+d) + b(c+d)$

$(a+b)(c+d) = \boldsymbol{ac + ad + bc + db}$

2) أنشر وبسط ما يلي : (1,5 ن) (1,5 ن) (1,5 ن)

$A = 5x \times (7+9x)$

$A = 5x \times 7 + 5x \times 9x$

$\boldsymbol{A = 35x + 45x^2}$

$B = 7x \times (-6-3x)$

$B = 7x \times (-6) - 7x \times 3x$

$\boldsymbol{B = -42x - 21x^2}$

$C = (11x+5)(8+3x)$

$C = 11x \times 8 + 11x \times 3x + 5 \times 8 + 5 \times 3x$

$C = 88x + 33x^2 + 40 + 15x$

$\boldsymbol{C = 33x^2 + 103x + 40}$

3) عمل ما يلي : (1 ن) (1,5 ن)

$D = 7xyt + 5xy$

$\boldsymbol{D = xy(7t+5)}$

$E = (4x+5)(3x+1) + (3x+1)(x+3) = (3x+1)[(4x+5)+(x+3)]$

$E = (3x+1)(4x+5+x+3) = \boldsymbol{(3x+1)(5x+8)}$

التمرين الثاني (7 نقط) :

MNP مثلث متساوي الساقين في M و O نقطة خارجه بحيث: $M\widehat{N}P = 50°$ و $NM = 3cm$ (1,5 ن)

1) أنشئ M' و N' و P' مماثلات M و N و P على التوالي بالنسبة للنقطة O. **(أنظر الشكل)** (1,5 ن)

2) أحسب معللا جوابك $M'\widehat{N'}P'$. (2 ن)

لدينا M' و N' و P' مماثلات M و N و P على التوالي بالنسبة للنقطة O.

يعني أن $M'\widehat{N'}P'$ هي مماثلة $M\widehat{N}P$ بالنسبة للنقطة O.

وبما أن التماثل المركزي يحافظ على قياس الزوايا فإن :

$\boldsymbol{M'\widehat{N'}P' = M\widehat{N}P = 50°}$ □

3) أنشئ H مركز تعامد المثلث MNP. **(أنظر الشكل)** (2 ن)

الشكل

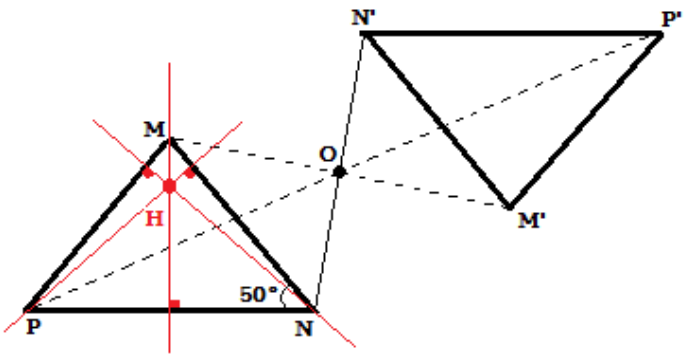

التمرين الثالث (3 نقط) :

في أي حالة يكون المثلث PRS قائم الزاوية (معللا جوابك) :

الحالة 1 : $\hat{S} = 70°$ و $\hat{P} = 20°$ (1,5 ن)

لدينا: $\hat{P} + \hat{S} = 20° + 70° = 90°$

إذن : **المثلث PRS قائم الزاوية في $\hat{R}$**

الحالة 2 : $\hat{R} = 55°$ و $\hat{S} = 95°$ (1,5 ن)

لدينا: $\hat{R} + \hat{S} = 55° + 95° = 150° \neq 90°$

إذن : **المثلث PRS ليس قائم الزاوية**

بالتوفيـــق

ثانوية سيدي معافة الإعدادية	**فرض محروس رقم ❷ الأسدس الثاني**	المادة : الرياضيات 50 دقيقة
وجدة	**الأستاذ: توفيق بوكرارة**	المستوى: الأولى ثانوي إعدادي

الإسم: ..... **القسم:** ..... **الرقم:** .....

التمرين الأول (6 نقط) : حل المعادلات التالية :

$4x+6=9$	$5x-2=7$	$x-3=11$	$x+5=8$
.....	.....	.....	.....
.....	.....	.....	.....
.....	.....	.....	.....
.....	.....	.....	.....
.....	.....	.....	.....

مسألة (3 نقط) : مجموع ثلاثة أعداد صحيحة طبيعية متتابعة هو 21 . ما هي هذه الأعداد؟

.....	.....	.....	.....
.....	.....	.....	.....
.....	.....	.....	.....
.....	.....	.....	.....

التمرين الثاني (8 نقط) : EFG مثلث متساوي الساقين رأسه E . $EF = 3cm$ و M منتصف $[FG]$ و N مماثلة E بالنسبة للنقطة M .

1) أنشئ الشكل ؟

4) استنتج أن (EN) عمودي على (FG).

.....

.....

2) بين أن الرباعي EFNG متوازي الأضلاع؟

.....

.....

.....

.....

.....

.....

3) هل EFNG معين ؟ علل جوابك.

.....

.....

.....

.....

.....

.....

التمرين الثالث (3 نقط) : نعتبر الشكل التالي بحيث: $(D)//(D')$

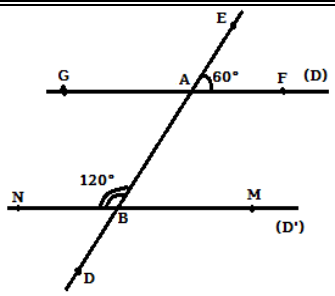

1) حدد قياس الزاوية $\widehat{ABM}$؟

.....

.....

.....

.....

2) حدد قياس الزاوية $\widehat{GAB}$؟

.....

.....

.....

.....

3) حدد قياس الزاوية $\widehat{BAF}$؟

.....

.....

.....

.....

بالتوفيـــق

ثانوية سيدي معافة الإعدادية	**تصحيح الفرض المحروس رقم ❷ الأسدس الثاني**	المادة : الرياضيات ⏲ 50 دقيقة
وحدة	**الأستاذ: توفيق بوكرارة**	المستوى: الأولى ثانوي إعدادي

❀ **التمرين الأول (6 نقط) :** حل المعادلات التالية :

$4x+6=9$ $4x=9-6$ $4x=3$ $x=\frac{3}{4}$ $S=\left\{\frac{3}{4}\right\}$	$5x-2=7$ $5x=7+2$ $5x=9$ $x=\frac{9}{5}$ $S=\left\{\frac{9}{5}\right\}$	$x-3=11$ $x=11+3$ $x=14$ $S=\{14\}$	$x+5=8$ $x=8-5$ $x=3$ $S=\{3\}$

❀ **مسألة (3 نقط) :** مجموع ثلاثة أعداد صحيحة طبيعية متتابعة هو 21 . ما هي هذه الأعداد؟

❖ **إختيار المجهول المناسب:**

ليكن x العدد الأول

و x+1 العدد الثاني

و x+2 العدد الثالث

❖ **صياغة المعادلة:**

$x+(x+1)+(x+2)=21$

❖ **حل المعادلة:**

$3x+3=21$

$3x=21-3$

$3x=18$

$x=\frac{18}{3}$

$x=6$

❖ **تأويل الحل:**

العدد الأول هو: 6

العدد الثاني هو: 7

العدد الثالث هو: 8

❀ **التمرين الثاني (8 نقط) :** EFG مثلث متساوي الساقين رأسه E . $EF=3cm$ و M منتصف $[FG]$ و N مماثلة E بالنسبة للنقطة M .

1) الشكل

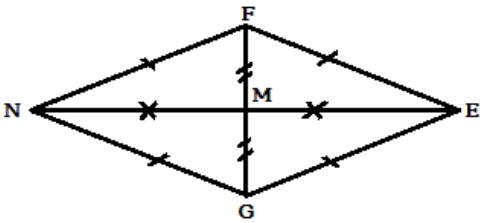

4) نستنتج أن (EN) عمودي على (FG).

بما أن EFNG معين يعني أن قطريه متعامدين.

إذن : (EN) عمودي على (FG)

2) نبين أن الرباعي EFNG متوازي الأضلاع:

لدينا M منتصف $[FG]$

و N مماثلة E بالنسبة للنقطة M

يعني أن: M منتصف $[FG]$

وبما أن القطرين لهما نفس المنتصف

إذن : **الرباعي EFNG متوازي الأضلاع.**

3) هل EFNG معين ؟ علل جوابك.

لدينا EFNG متوازي الأضلاع

يعني أن أضلعه المتقابلة متقايسة .

و لدينا EFG مثلث متساوي الساقين رأسه E .

يعني أن كل ضلعين متتابعين في متوازي الأضلاع EFNG متقايسين .

إذن : **EFNG معين.**

❀ **التمرين الثالث (3 نقط) :** نعتبر الشكل التالي بحيث: $(D)//(D')$

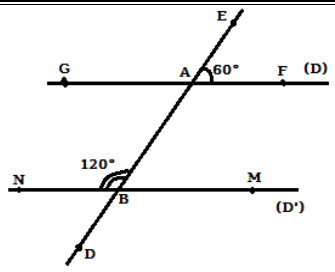

1) حدد قياس الزاوية $\widehat{ABM}$؟

$\widehat{ABM}=\widehat{EAF}=60°$

لأن الزاويتان متناظرتان

2) حدد قياس الزاوية $\widehat{GAB}$؟

$\widehat{GAB}=\widehat{EAF}=60°$

لأن الزاويتان متقابلتان بالرأس

3) حدد قياس الزاوية $\widehat{BAF}$؟

$\widehat{BAF}=\widehat{ABN}=120°$

لأن الزاويتان متبادلتان داخليا

ثانوية سيدي معافة الإعدادية	فرض محروس رقم 3 الأسدس الثاني	المادة : الرياضيات 45 دقيقة
وجدة	الأستاذ: توفيق بوكرارة	المستوى: الأولى ثانوي إعدادي

الإسم: ..... القسم: ..... الرقم: .....

التمرين الأول (4 نقط) :

(J: I; O) معلم متعامد ممنظم، نعتبر النقط :

A(2 ;0) و B(-2 ;0) و C(-2 ;-3) و D(1 ;-2) .

1) أنشئ النقط A و B و C و D. (2 ن)

2) أحسب المسافة AB . (2 ن)

.....

.....

التمرين الثالث (4,5 نقط) :

قطعت سيارة مسافة 150km في ظرف 4 ساعات.

1) ماهي سرعة السيارة؟ (1,5 ن)

.....

.....

.....

.....

2) أحسب الرابع المتناسب X . (2 ن)

7	28
4	X

.....

.....

.....

.....

3) أعط قاعدة السلم. (1 ن)

.....

.....

التمرين الثاني (5 نقط) :

(C) دائرة مركزها O وقطرها [AB] .

1) أنشئ الدائرة. (1 ن)

2) أنشئ المستقيم (D) مماس للدائرة في النقطة A . (1 ن)

3) أنشئ المستقيم (Δ) مماس للدائرة في النقطة B . (1 ن)

4) بين أن: $(D)//(\Delta)$ ؟ (2 ن)

.....

.....

التمرين الرابع (5,5 نقط) :

بعد القيام بدراسة إحصائية حول عدد الساعات الإضافية التي أنجزها مجموعة من العمال بإحدى الشركات حصلنا على الكشف الآتي: 2-5-4-5-3-3-2-3-3-4-3-4-2-1-4-2-1-3-4-3-2-2

1) ما هي الميزة المدروسة؟ (0,5 ن)

.....

2) ما هي الساكنة الإحصائية؟ (0,5 ن)

.....

3) ما هو الحصيص الإجمالي؟ (0,5 ن)

.....

4) كون جدول الحصيصات والترددات. (2,5 ن)

5) أحسب النسب المئوية وضعهم في الجدول. (1,5 ن)

.....

.....

.....

.....

.....

.....

بالتوفيق

ثانوية سيدي معافة الإعدادية	تصحيح الفرض المحروس رقم ❸ الأسدس الثاني	المادة : الرياضيات 45 دقيقة
وحدة	الأستاذ: توفيق بوكرارة	المستوى: الأولى ثانوي إعدادي

التمرين الأول (4 نقط) :

(O ;I ;J) معلم متعامد ممنظم، نعتبر النقط :

A(2 ;0) و B(-2 ;0) و C(-2 ;-3) و D(1 ;-2) .

1) أنشئ النقط A و B و C و D. (2 ن)

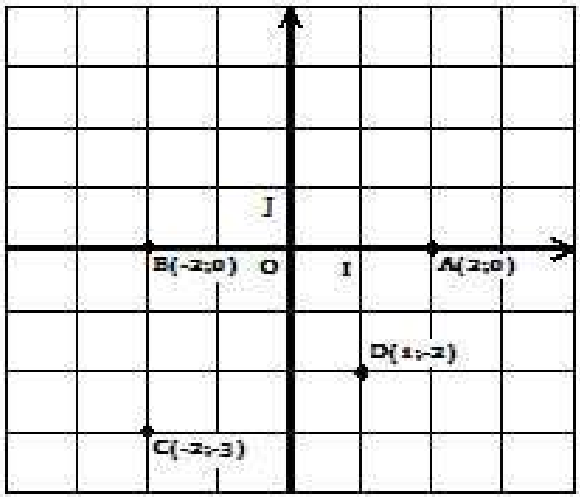

2) حساب المسافة AB : (2 ن)

$$AB = x_A - x_B = 2 - (-2) = 2 + 2$$

$$\underline{AB = 4}$$

التمرين الثالث (4,5 نقط) :

قطعت سيارة مسافة 150km في ظرف 4 ساعات.

1) سرعة السيارة: (1,5 ن)

4h ------ > 150km

1h ------ > x

$$x = 1h \times \frac{150km}{4h} = 37,5km$$

إذن: سرعة السيارة هي 37,5km/h

2) أحسب الرابع المتناسب X . (2 ن)

28	7
X	4

$$X = 4 \times \frac{28}{7}$$

$$\underline{X = 16}$$

3) قاعدة السلم هي: (1 ن)

$$e = \frac{\text{المسافة على التصميم}}{\text{البعد الحقيقي}}$$

التمرين الثاني (5 نقط) :

(C) دائرة مركزها O وقطرها [AB] .

1) أنشئ الدائرة. (1 ن)

2) أنشئ المستقيم (D) مماس للدائرة في النقطة A . (1 ن)

3) أنشئ المستقيم (Δ) مماس للدائرة في النقطة B . (1 ن)

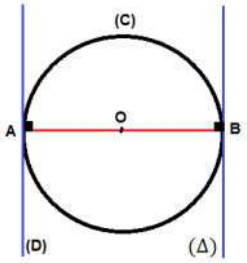

4) نبين أن: $(D)//(\Delta)$ (2 ن)

(Δ) مماس للدائرة في النقطة B يعني أنه عمودي على (AB) .

و (D) مماس للدائرة في النقطة A يعني أنه عمودي على (AB) .

إذن : $(D)//(\Delta)$

التمرين الرابع (5,5 نقط) :

بعد القيام بدراسة إحصائية حول عدد الساعات الإضافية التي أنجزها مجموعة من العمال بإحدى الشركات حصلنا على الكشف الآتي: 2-5-4-5-3-3-2-3-4-3-4-1-2-4-1-3-4-2-3-2-2

1) الميزة المدروسة هي: عدد الساعات الإضافية (0,5 ن)

2) الساكنة الإحصائية هم: العمال (0,5 ن)

3) الحصيص الإجمالي هو : 20 (0,5 ن)

4) جدول الحصيصات والترددات. (2,5 ن)

الميزة	1	2	3	4	5
الحصيص	2	6	6	4	2
التردد	$\frac{2}{20}$	$\frac{6}{20}$	$\frac{6}{20}$	$\frac{4}{20}$	$\frac{2}{20}$
النسبة المئوية	10%	30%	30%	20%	10%

5) حساب النسب المئوية: (1,5 ن)

$$\frac{2}{20} \times 100 = \frac{200}{20} = 10\%$$

$$\frac{6}{20} \times 100 = \frac{600}{20} = 30\%$$

$$\frac{4}{20} \times 100 = \frac{400}{20} = 20\%$$